腹がたつなぞなぞ

頭がいい人ほどダマされる！

83 最大3点

ぺんたは150円を持って70円のおかしを買ったよ。でもおつりは30円しかもらえなかったんだって。どうして？

84 最大3点

名前に「なが」がつく県は長野県と長崎県と神奈川県。では、「きょう」がつく県はどれ？

85 最大3点

えんぴつを1本だけ動かして、式を完成させよう！

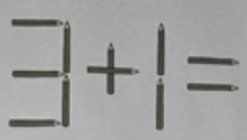

86 最大3点

ごはんを食べる前にするあいさつは「いただきます」。では、ごはんを食べた後にするのは？

87 最大3点

カタカナとりのぞくとでき3言葉は？

キしナヲんコぶラ
スんズきじ

88 最大3点

小春が持っているスマホは、電源がオンのときもオフのときもペンギンがうつっているよ。どうしてかな？

89 最大3点

10人乗りの船に力士が7人乗ったら船がしずんでいったよ。どうしてかな？

90 最大3点

ぺんたの担任の先生は、小学生でソフトボール、中学生で野球、高校生でサッカーをしていたんだそう。では、今は何をしている？

91 最大3点

日本にはとてもたくさんの道があるよ。その中でいちばん幅が広いのはどの道？

92 最大3点

スタートの点から直線を引いてすべての点を通ろう。最低何回曲がる必要があるかな？



93 最大3点

○に入る文字を下から選んで、海の生き物の名前にしよう！

○ラメ

ク ア ミ

94 最大3点

運転手が何も言わないでバスに入ってきたが、バスを利用していた客は何の反応もしなかった。一体なぜ？

95 最大3点

運動会に出場したぺんたは、スタートの合図と同時に後ろに向かって進みだした。どうしてかな？

96 最大3点

カタカナだけを上の段から順に読むとでき3言葉は？

あ	セ	す	と	か	ぐ	ご
け	ふ	ん	り	ぶ	る	イ
力	ふ	た	ま	い	さ	と
じ	イ	ぬ	つ	ゆ	だ	ほ

97 最大3点

バッテリーが0パーセントになったスマホを使って電話をするには、どうすればいい？

98 最大3点

目の前に深くて流れが速い大きな川があるよ。向こう岸まで泳ぐことはできそうにないけど、ぺんたは水の上を歩いてわたれるんだとか。一体どうして？

99 最大3点

オセロで遊んでいた小春とぺんた。白のぺんたは小春の黒いコマをはさんで1回転させたよ。でも、そのコマは黒のままだった。一体どうして？

100 最大3点
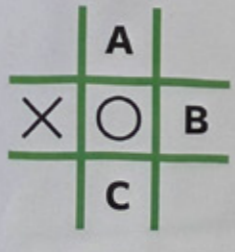
○と×が直線で3つ並ぶと勝ちになるゲームをしているよ。1ターンで○が勝つためには、A、B、Cのどこに置けばいいかな？